Blick durch das Prisma

Versuch



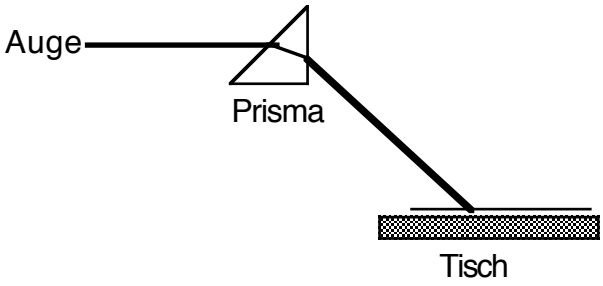

Arbeitsblatt Download pdf

Auftrag

1. Beobachte durch ein Prisma die 6 Bilder . (Siehe oben)
2. Notiere am rechten Rand von jedem Bild die gesehenen Farben.
3. Erkläre das Gesehene. Tipp: blau wird stärker gebrochen als rot.
   Beachte die Gesetze der Farbaddition i, Farbkreis.

Bild 1a



Bild 2a

Bild 1b



Bild 2b

Bild 1c

Bild 2c